16.11. Rajzoljuk le egy rúdmágnes, egy áramjárta tekercs és egy áramjárta egyenes vezető mágneses indukcióvonalait! Jelöljük be az indukcióvonalak irányát, a pólusokat, illetve az áram irányát!

Megoldás:

16.11.

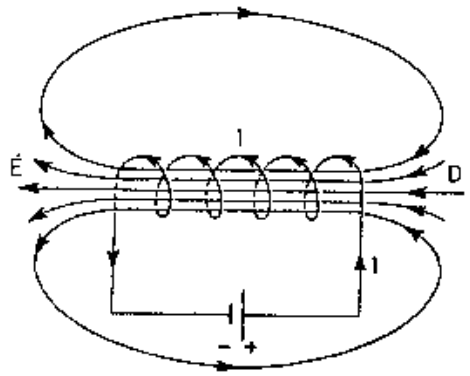

tekercs

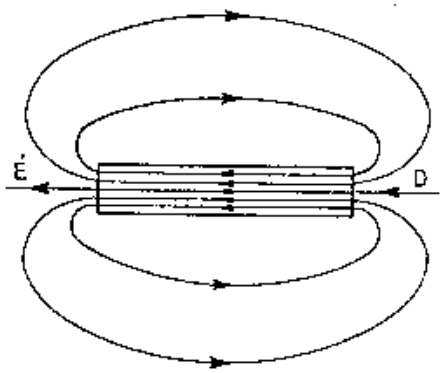

rúdmágnes

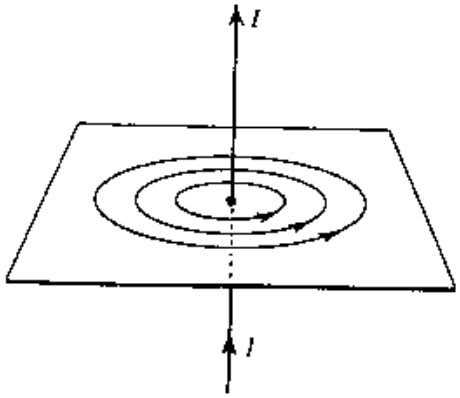

egyenes vezető